PREFEITURA DE SANTOS
Secretaria de Educação

NOME:_____

UME PROF.PEDRO CRESCENTI/ATIVIDADE REMOTA 15 e 16 (DE 17/05 A 28/05)

* PORTAL/POSTAGEM/DATA DE REFERÊNCIA 19/05 Á 02/06.

Prof. Márcia Hurtado- A/ Vanessa Vasquez- B / Guaraciara – C / Rosely Verardi - D

Disciplina: Língua Portuguesa/Matemática/História/3°Anos do Ensino Fundamental.

SEGUNDA-FEIRA/DIA:17/05

A CASA E SEU DONO

ESSA CASA É DO CACO QUEM MORA
NELA É O MACACO.

ESSA CASA É TÃO BONITA

QUEM MORA NELA É A CABRITA.

ESSA CASA É DE CIMENTO

QUEM MORA NELA É O JUMENTO.

ESSA CASA É DE TELHA

QUEM MORA NELA É A ABELHA.

ESSA CASA É DE LATA

QUEM MORA NELA É A BARATA.

ESSA CASA É ELEGANTE

QUEM MORA NELA É O ELEFANTE.

E DESCOBRI DE REPENTE

QUE NÃO FALEI EM CASA DE
GENTE.

ELIAS JOSÉ

1) ESCREVA EM SEU CADERNO OS NOMES DOS ANIMAIS QUE APARECEM NA POESIA:

_____

_____

2– O QUE SE DESCOBRIU AO FINAL DA POESIA?

_____

3 – QUAL É O TÍTULO DA POESIA?

_____

4 – QUAL É O NOME DO AUTOR?

a. ELIAS JOSÉ B) JOÃO ELIAS

5 – EM SEU CADERNO ESCREVA O NOME DO DONO DA CASA DE ACORDO COMO ÉCADA UMA:

CIMENTO	
LATA	
CACO	
ELEGANTE	
TELHA	
BONITA	

6 – A CASA DO ELEFANTE É ELEGANTE, DA CABRITA É BONITA. E A **SUA CASA**? COMOVOCÊ ACHA QUE ELA É? ESCREVA UMA FRASE SOBRE ELA:

_____

_____

7 – ESCREVA EM SEU CADERNO O NOME DOS ANIMAIS:

_____ _____

PREFEITURA DE SANTOS
Secretaria de Educação

1) CALCULE EM SEU CADERNO:

REVISANDO:



1 DÚZIA É IGUAL A 12 UNIDADES. **MEIA DÚZIA É IGUAL A 6 UNIDADES.**

1) CALCULE EM SEU CADERNO:

A) UMA DÚZIA DE OVOS SÃO_____OVOS.

B) DUAS DÚZIAS DE OVOS SÃO_____OVOS.

C) MEIA DÚZIA DE OVOS SÃO_____ OVOS.

D) UMA DÚZIA E MEIA DE OVOS_____OVOS.

1- RESPONDA EM SEU CADERNO AS QUESTÕES ABAIXO:

A) FUI AO MERCADO E COMPREI UMA DÚZIA DE BANANAS E 5 MAÇÃS. QUANTAS FRUTAS COMPREI AO TODO?

____+ ____ = ☐

B) PEDRO TINHA 2 DÚZIAS DE BOLINHAS DE GUDE, PERDEU 2 BOLINHAS NO QUINTAL DE SUA CASA. COM QUANTAS BOLINHAS DE GUDE PEDRO FICOU?

____– ____ = ☐

R: PEDRO FICOU COM_____BOLINHAS DE GUDE.



TERÇA-FEIRA/DIA:18/05

ESCREVA O MASCULINO E O FEMININO, SEGUINDO O EXEMPLO ABAIXO:

_____ _____ _____ _____

1- OBSERVE O SISTEMA MONETÁRIO BRASILEIRO ABAIXO. CALCULE AS QUANTIAS E ESCREVA O RESULTADO EM SEU CADERNO:

A) + = ☐

B) + = ☐

C) + = ☐

D) + = ☐

E) + = ☐

Sistema Monetário Brasileiro

	R$ 2,00	DOIS REAIS
	R$ 5,00	CINCO REAIS
	R$ 10,00	DEZ REAIS
	R$ 20,00	VINTE REAIS
	R$ 50,00	CINQUENTA REAIS
	R$ 100,00	CEM REAIS

2)AS CRIANÇAS RESOLVERAM MONTAR ALGUMAS AMARELINHAS COM SEQUÊNCIAS NUMÉRICAS DIFERENTES. COMPLETE AS SEQUÊNCIAS REGISTRANDO EM SEU CADERNO:

A)
41
42 ☐
44
☐ ☐
47
48 ☐
50

B)
☐
22 ☐
☐
25 26
☐
☐ 29
☐

C)
☐
☐ 73
☐
75 ☐
☐
78 ☐
☐

D)
☐
92 ☐
☐
☐ ☐
97
☐ ☐
100

PREFEITURA DE SANTOS
Secretaria de Educação

QUARTA-FEIRA/DIA:19/05

LEIA O TEXTO ABAIXO:

ELEFANTINHO

AONDE VAIS, ELEFANTINHO

CORRENDO PELO CAMINHO

ASSIM TÃO **DESCONSOLADO**?

ANDAS PERDIDO, BICHINHO

ESPETASTE O PÉ NO ESPINHO

QUE SENTES, POBRE COITADO?

-ESTOU COM UM MEDO DANADO

-ENCONTREI UM PASSARINHO!

VINÍCIUS DE MORAIS. A ARCA DE NOÉ. SÃO PAULO: COMPANHIA DAS LETRAS, 199

ENTENDENDO A POESIA:

NA POESIA, CADA LINHA É **VERSO**.
CADA CONJUNTO DE VERSOS É UMA **ESTROFE**.

AGORA, RESPONDA EM SEU CADERNO:

1 - QUANTOS VERSOS TEM A POESIA?
A) 8 VERSOS
B) 9 VERSOS
C) 7 VERSOS

2 – QUANTAS ESTROFES?
A) 3 ESTROFES
B) 2 ESTROFES
C) 1 ESTROFE

3 – NO VERSO "ASSIM TÃO DESCONSOLADO?", A PALAVRA **DESCONSOLADO** SIGNIFICA QUE O ELEFANTINHO ESTAVA:
A) FELIZ
B) TRISTE
C) COM RAIVA

MATEMÁTICA:

1- ESCREVA EM SEU CADERNO OS NÚMEROS ABAIXO EM ORDEM **CRESCENTE**:

A) 20, 24, 60, 89, 22

___, ___, ___, ___, ___

B) 43, 26, 16, 68, 94

___, ___, ___, ___, ___

2- ESCREVA EM SEU CADERNO EM ORDEM **DECRESCENTE**:

A) 13, 35, 57, 78, 29

___, ___, ___, ___, ___

B) 72, 41, 56, 80, 90

___, ___, ___, ___, ___

2- ESCREVA O NÚMERO CORRESPONDENTE EM SEU CADERNO:

A) CINQUENTA E SEIS - ☐

B) TRINTA E NOVE – ☐

C) SETENTA – ☐

D) VINTE E UM - ☐

E) OITENTA E DOIS - ☐

F) QUINZE - ☐

G) QUARENTA E SETE - ☐

H) SESSENTA E TRÊS – ☐

1- EFETUE AS ADIÇÕES EM SEU CADERNO:

A)

	D	U
	3	6
+	2	3

B)

	D	U
	1	5
+	2	1

C)

	D	U
	4	0
+	5	7

D)

	D	U
	6	1
+	2	8

PREFEITURA DE SANTOS
Secretaria de Educação

QUINTA-FEIRA / DIA:20/05

CHAMAMOS DE **AUMENTATIVO** A FORMA COMO NOMEAMOS AS COISAS, COLOCANDO-AS BEM MAIOR DO QUE SÃO ATRAVÉS DO **EXAGERO**.

EX: AMIGO - AMIG**ÃO**

CHAMAMOS DE **DIMINUTIVO** A FORMA COMO NOMEAMOS AS COISAS, COLOCANDAS BEM MENOR DO QUE SÃO, DANDO UM AR DE DELICADEZA, COISINHA MUITO MIÚDA.

EX: AMIGO - AMIGU**INHO**

1– COPIE DO TEXTO ELEFANTINHO, 3 PALAVRAS QUE ESTÃO NO **DIMINUTIVO**:

2 – COMPLETE A TABELA COM O **AUMENTATIVO** DAS PALAVRAS:

ELEFANTE	
BICHO	
MEDO	
GATO	
CAVALO	
PÉ	

4 - COMPLETE AS PALAVRAS COM **LH, CH OU NH**:

A) GALI____A
B) ____UVOSO
C) LI____A
D) ____AVE
E) MA____UCADO
F) ELEFANTI____O

G) REPO____O
H) VE____A

PREFEITURA DE SANTOS
Secretaria de Educação

MATEMÁTICA:

OBSERVE A TABELA E RESPONDA EM SEU CADERNO:

1	2	3	4	5	6	7	8	9	10
11	12	13	14	15	16	17	18	19	20
21	22	23	24	25	26	27	28	29	30
31	32	33	34	35	36	37	38	39	40
41	42	43	44	45	46	47	48	49	50

A) QUE NÚMERO ESTÁ ENTRE 18 E 20? _____

B) QUAL NÚMERO ESTÁ ENTRE 26 E 28?_____

C) QUAL NÚMERO ESTÁ ENTRE 48 E 50? _____

D) QUAL NÚMERO ESTÁ ENTRE 37 E 39? _____

2- OBSERVE A IMAGEM ABAIXO:

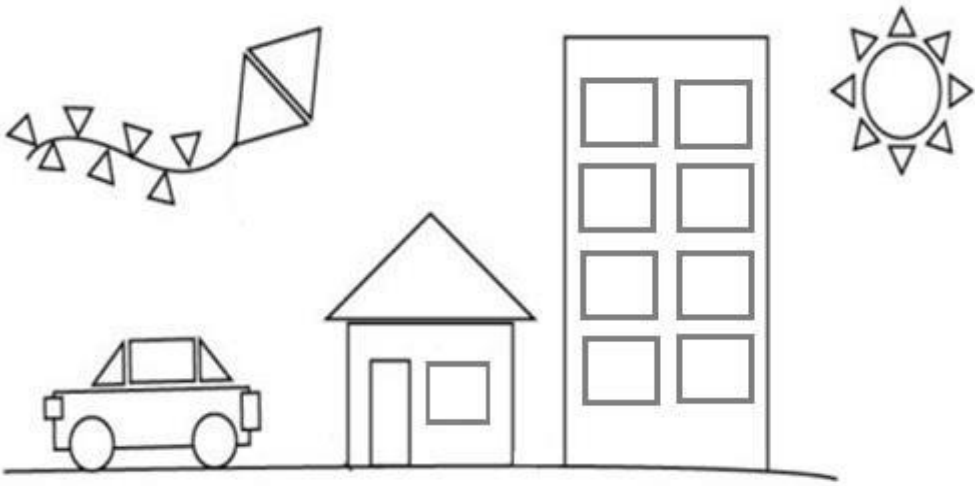

ESCREVA EM SEU CADERNO A QUANTIDADE DE FORMAS GEOMÉTRICAS QUE APARECEM NA IMAGEM:

A) CÍRCULOS: _____

B) TRIÂNGULOS:_____

C) QUADRADOS:_____

D) RETÂNGULOS: _____

PREFEITURA DE SANTOS
Secretaria de Educação

SEXTA-FEIRA / DIA:21/05

1) PINTE O NOME DA FIGURA OU ESCREVA EM SEU CADERNO:

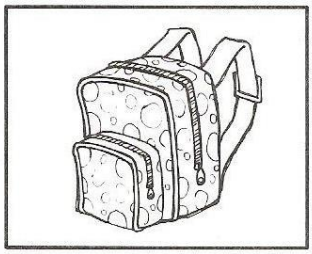

MOEDA	GALINHA	CHUVA	TENDA
MORANGO	GAMBÁ	CHUPETA	TELHA
MOCHILA	GARFO	CHOCALHO	TELA



GOLFINHO	DINHEIRO	ABUTRE	ARANHA
GORDINHO	DINAMITE	ABELHA	ALIANÇA
GOLEIRO	DIAMANTE	ABACATE	AMANDA

2) ESCREVA AS PALAVRAS ABAIXO NOS QUADROS CORRESPONDENTES:

NHA	NHE	NHO

MATEMÁTICA:

OBSERVE:

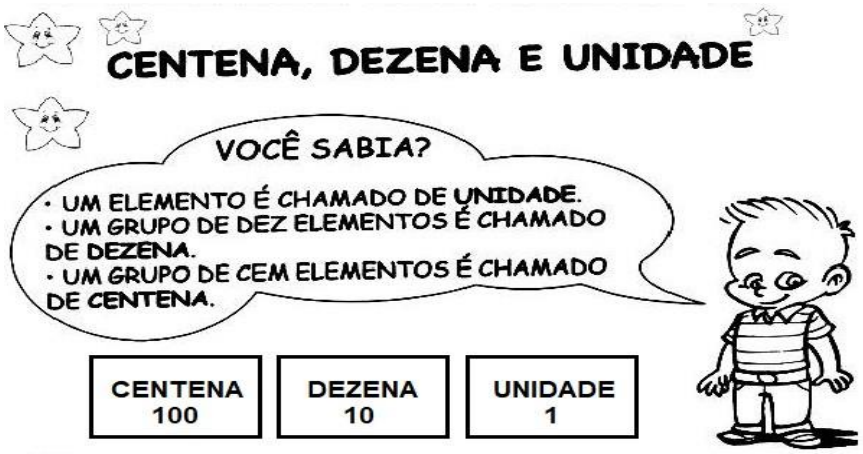

COMPLETE A TABELA DE ACORDO COM AS INFORMAÇÕES ACIMA. CADA MONTINHO AMARRADO TEM 10 PALITOS. VEJA O EXEMPLO E RESPONDA EM SEUCADERNO:

PALITOS	DEZENA(S)	UNIDADE(S)	TOTAL
	2	*2*	*22*

PALITOS	DEZENA(S)	UNIDADE(S)	TOTAL

	DEZENAS	UNIDADES
82	8	2

ESCREVA EM SEU CADERNO SEGUINDO O EXEMPLO ABAIXO:

	DEZENAS	UNIDADES
62		

	DEZENAS	UNIDADES
19		

PREFEITURA DE SANTOS
Secretaria de Educação

NOME:_____

SEGUNDA-FEIRA/DIA:24/05

O QUE SÃO MEIOS DE TRANSPORTE?

MEIOS DE TRANSPORTE SÃO OS MEIOS QUE UTILIZAMOS PARA NOS LOCOMOVER DE UM LUGAR PARA O OUTRO.

TAMBÉM SÃO RESPONSÁVEIS PARA TRANSPORTAR PESSOAS, ANIMAIS E MERCADORIAS.

OBSERVE AS FOTOS ABAIXO: SÃO ALGUNS MEIOS DE TRANSPORTE QUE UTILIZAMOS NO DIA A DIA PARA NOS LOCOMOVER NA CIDADE DE SANTOS.

AGORA RESPONDA EM SEU CADERNO:

1) QUAL O MEIO DE TRANSPORTE EM SANTOS QUE SE LOCOMOVE SOBRE OS TRILHOS?

_____

2) QUAIS SÃO OS OUTROS MEIOS DE TRANSPORTE QUE SUA

FAMÍLIA UTILIZA PARA SE LOCOMOVER?

PREFEITURA DE SANTOS
Secretaria de Educação

3) OBSERVE OS DESENHOS ABAIXO:

VAMOS BRINCAR UM POUCO?!

O QUE É, O QUE É?

A) NO MAR VIVO A NAVEGAR:

B) ANDO EM TRILHOS E MUITOS VAGÕES POSSUO:

C) VIVO NO AR A PASSEAR. TRANSPORTO PESSOA E CARGAS:

D) POSSO SER DE VÁRIOS MODELOS, A ÁLCOOL OU GASOLINA:

E) LEVO MUITAS PESSOAS AO TRABALHO E TENHO DUAS PORTAS:

PREFEITURA DE SANTOS
Secretaria de Educação

MATEMÁTICA:

RESOLVA AS SITUAÇÕES PROBLEMA.

1) ALINE GOSTA MUITO DE CANETAS. QUANDO SOUBE QUE O PRIMEIRO DIA DE AULA ESTAVA CHEGANDO FOI ATÉ A PAPELARIA E COMPROU UM ESTOJO COM23 CANETAS COLORIDAS. ALINE JÁ TINHA 12 CANETAS EM SUA MOCHILA. COM QUANTAS CANETAS ALINE FICOU AGORA?

(A) 11 CANETAS
(B) 15 CANETAS
(C) 25 CANETAS
(D) 35 CANETAS

2) O ÔNIBUS EM QUE MARIANA VAI PARA A ESCOLA CABEM 35 CRIANÇAS. HOJE,NO PRIMEIRO DIA DE AULA, APENAS 23 CRIANÇAS FORAM PARA A ESCOLA. QUANTAS CRIANÇAS FALTARAM?

(A) CRIANÇAS
(B) 21 CRIANÇAS
(C) 55 CRIANÇAS
(D) 65 CRIANÇAS

3) SABRINA CHEGOU BEM CEDO NO SEU PRIMEIRO DIA DE AULA. PASSOU ALCOOL EM GEL NAS MÃOS E FOI PARA SUA SALA. CHEGANDO LÁ SABRINA NOTOU QUE NEM TODOS OS SEUS AMIGOS ESTAVAM NA SALA. DOS 38 ALUNOS APENAS 8 ESTAVAM NA SALA. QUANTOS AMIGOS DE SABRINA NÃO FORAM À AULA NESTE DIA?

(A) 17 AMIGOS
(B) 18 AMIGOS
(C) 30 AMIGOS
(D) 45 AMIGOS

PREFEITURA DE SANTOS
Secretaria de Educação

TERÇA-FEIRA/DIA:25/05

1) REGISTTE OS NOMES DOS MEIOS DE TRANSPORTE ENCONTRADOS, NO SEU CADERNO:

CAÇA - TRANSPORTE

Encontre os meios de transporte.

W	F	B	V	R	W	G	T	B	T
C	W	S	P	G	M	O	T	O	B
Q	P	B	U	V	R	D	Z	S	Q
T	Q	I	B	L	K	G	X	G	P
X	Z	C	A	M	I	N	H	Ã	O
V	F	I	Z	Q	X	P	M	B	F
N	R	C	R	T	R	A	T	O	R
L	Ô	L	N	R	C	Q	K	H	A
W	N	E	Z	Q	A	P	M	I	C
C	I	T	R	N	R	Z	R	L	V
F	B	A	R	K	R	Q	K	H	Q
Q	U	Q	Z	Q	E	P	M	B	C
C	S	X	R	N	T	Z	W	L	B
F	R	T	R	K	A	Q	K	H	Q



MATEMÁTICA:

1) A PROFESSORA DE AMANDA COMPROU MÁSCARAS DESCARTÁVEIS PARA DISTRIBUIR AOS SEUS ALUNOS. ELA COMPROU 12 MÁSCARAS PARA DIVIDIR ENTRE OS 6 ALUNOS QUE ESTAVAM NA SALA NESTE DIA. COM QUANTAS MÁSCARAS CADA ALUNO FICOU?

(A) 2 MÁSCARAS
(B) 6 MÁSCARAS
(C) 8 MÁSCARAS
(D) 18 MÁSCARAS

O QUE VEM ANTES E O QUE VEM DEPOIS?

antes		depois
	41	

antes		depois
	49	

antes		depois
	44	

antes		depois
	42	

antes		depois
	48	

antes		depois
	45	

antes		depois
	46	

antes		depois
	50	

antes		depois
	43	

antes		depois
	47	

PREFEITURA DE SANTOS
Secretaria de Educação

Santos CIDADE EDUCADORA

QUARTA-FEIRA/DIA:26/05

MEIOS DE TRANSPORTE

VAMOS ESCREVER OS NOMES DOS MEIOS DE TRANSPORTES ABAIXO.





SITUAÇÕES-PROBLEMAS



GABRIEL TINHA 23 LÁPIS DE COR. NUMA SEMANA PERDEU 12 LÁPIS. COM QUANTOS LÁPIS GABRIEL FICOU?

✂----------

CECÍLIA CONVIDOU OS 27 AMIGUINHOS DE CLASSE PARA O SEU ANIVERSÁRIO. FORAM APENAS 15 COLEGAS. QUANTOS FALTARAM?

✂----------



PARA O ANIVERSÁRIO DE CECÍLIA, DONA CARLA FEZ ALGUNS DOCES DIFERENTES. ELA FEZ 28 DOCINHOS DE BETERRABA E 31 DE MANDIOCA. QUANTOS DOCINHOS DIFERENTES DONA CARLA FEZ?

✂----------



DONA CARLA COMPROU UMA DÚZIA DE BALÕES COR DE ROSA, UMA DEZENA DE BALÕES AZUIS E MEIA CENTENA DE BALÕES COLORIDOS. QUANTOS BALÕES HAVIA NA FESTA?

MEIOS DE TRANSPORTE

SEJA NA CIDADE OU NO CAMPO, NA PRAIA OU NA FAZENDA, PARA PASSEAR, TRABALHAR, IR À ESCOLA OU AO SUPERMERCADO, É PRATICAMENTE IMPOSSÍVEL IMAGINAR NOSSA VIDA SEM ALGUM MEIO DE TRANSPORTE.

ALÉM DE SER FUNDAMENTAL PARA TRANSPORTAR PESSOAS, OS DIVERSOS MEIOS DE TRANSPORTES SÃO IMPORTATÍSSIMOS PARA LEVAR DE UM LUGAR PARA O OUTRO DIVERSOS TIPOS DE CARGAS COMO ALIMENTOS, MATÉRIA PRIMA PARA PRODUÇÃO DE VÁRIOS PRODUTOS, MEDICAMENTOS ETC.

OS MEIOS DE TRANSPORTES SÃO CLASSIFICADOS DA SEGUINTE FORMA:

- TERRESTRES: FERROVIÁRIO, RODOVIÁRIO, METROVIÁRIO.
- AQUÁTICOS OU HIDROVIÁRIOS: MARÍTIMO,FLUVIAL
- AÉREOS.

AGORA VAMOS CONHECER MAIS SOBRE ESTES MEIOS DE TRANSPORTES:

TERRESTRES	AQUÁTICOS	AÉREOS
BICICLETA	NAVIO	AVIÃO
CAMINHÃO	BARCOS	HELICÓPETRO
CARRO	BALSA	ASA-DELTA
TREM	LANCHAS	PARAPENTE
ÔNIBUS	VELEIROS	BALÃO
METRÔ		

Circule o meio de transporte terrestre com o qual se pode brincar.

MATEMÁTICA:

vamos trabalhar com grupinhos?

Forme grupinhos de acordo com os numerais:

Grupos de 5



Quantos grupinhos você conseguiu formar? _____

Quantos desenhos sobraram? _____

Grupos de 3

Quantos grupinhos você conseguiu formar? _____

Quantos desenhos sobraram? _____

Grupos de 2

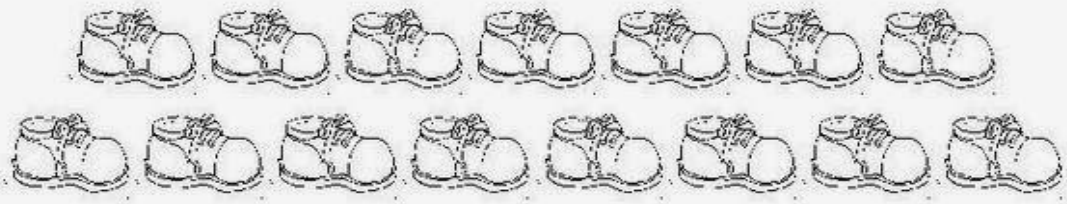

Quantos grupinhos você conseguiu formar? _____

Quantos desenhos sobraram? _____

SEXTA-FEIRA/DIA:28/05

VAMOS NOS PROTEJER DESSE VÍRUS!

CARTA ENIGMÁTICA

EU LAVO AS COM  .

FÁBIO LIMPA O COM

.

VITOR TAMPA A COM O .

O VÍRUS É TRANSMITIDO PELO .

A EVITA A CONTAMINAÇÃO.

MATEMÁTICA:
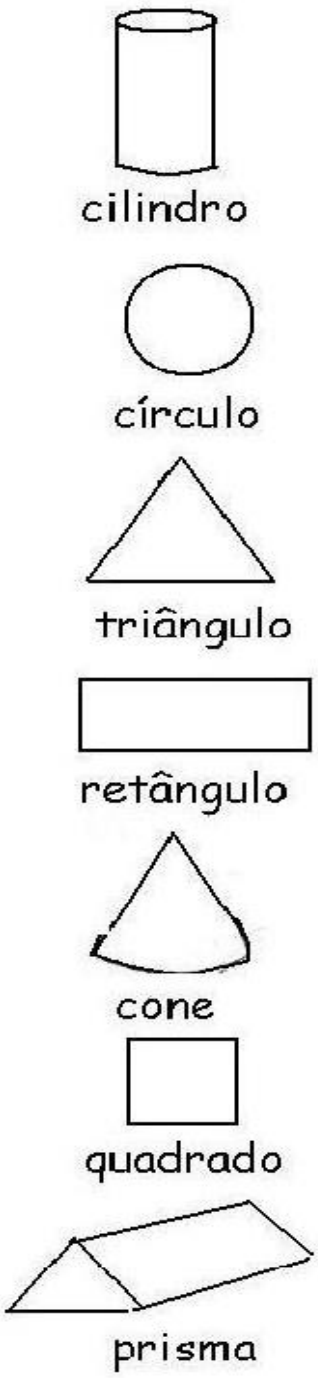
Ligue as formas geométicas as gravuras: